Име и презиме: _____ *Датум:* _____

Волшебни триаголници

Волшебните триаголници содржат броеви распоредени по нивните темиња и страни, така што збирот на броевите на секоја страна од триаголникот е еднаков. Еве еден волшебен триаголник кај кој збирот на броевите на секоја страна е еднаков на 9. Бројот 9 е волшебниот збир.

1 + 6 + 2 = 9

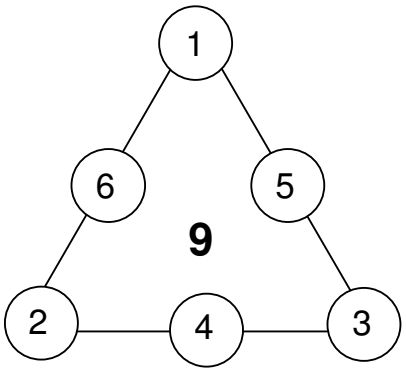

1 + 5 + 3 = 9

2 + 4 + 3 = 9

1 Пополни ги волшебните триаголници со броевите кои недостигаат за да збирот на броевите на секоја од страните е еднаков на волшебниот збир напишан во средината на триаголникот.

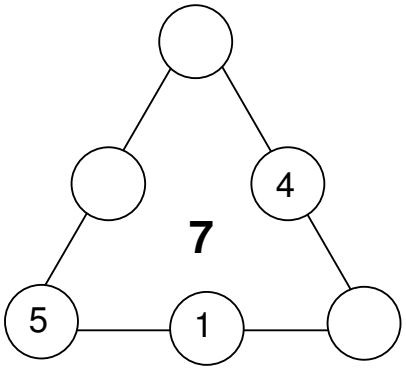

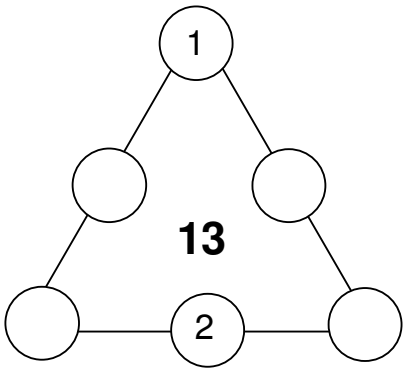

2 Пополни ги волшебните триаголници со броевите 1, 2, 3, 4, 5, 6 за да збирот на броевите на секоја од страните е еднаков на волшебниот збир напишан во средината на триаголникот.

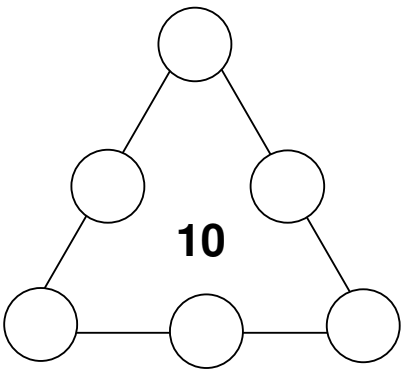

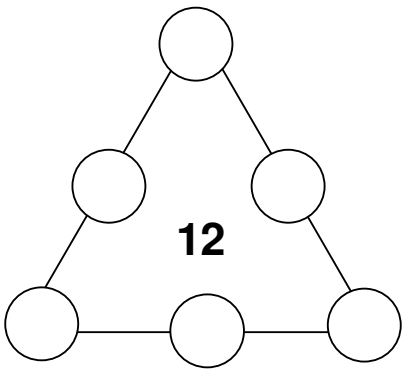

Copyright © 2015 Математика +

Волшебни триаголници

Одговори

1

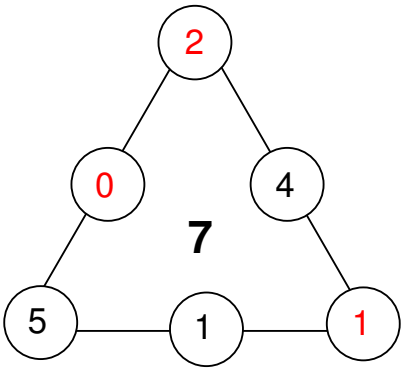

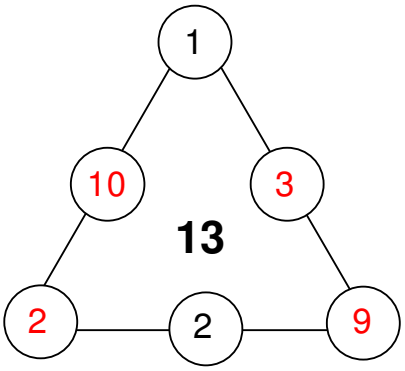

(има повеќе точни одговори)

2

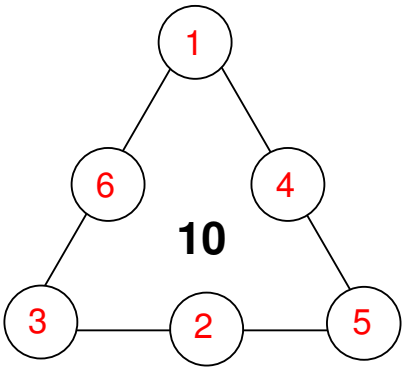

(или ротирана варијанта)

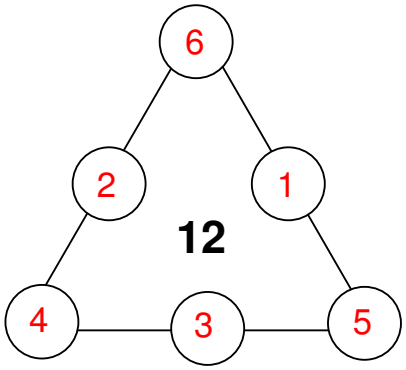

(или ротирана варијанта)

Copyright © 2015 Математика +